SM:D

SCUOLA MEDIA DIGITALE

La cronologia e la linea del tempo

Per comprendere i fatti storici e le loro relazioni, bisogna innanzitutto posizionarli correttamente nel tempo: per questo possiamo utilizzare la linea del tempo, uno strumento che impareremo a costruire assieme.

L'utilizzo corretto della linea del tempo ci permette di stabilire in modo preciso la cronologia, e cioè l'ordine temporale in cui si svolgono fatti e fenomeni storici.

Stabilire l'esatto ordine temporale dei fatti storici è importantissimo, perché ci permette di comprendere in modo corretto i legami di causa ed effetto che intercorrono tra di essi.

LA CRONOLOGIA E LA LINEA DEL TEMPO

LA LINEA DEL TEMPO È UNA LINEA ORIENTATA SULLA QUALE VENGONO DISPOSTI I FATTI STORICI PARTENDO DA SINISTRA (PER I FATTI PIÙ DISTANTI DA NOI) VERSO DESTRA (PER I FATTI PIÙ VICINI A NOI).

È UNA LINEA ORIENTATA PERCHÉ, COME VEDI, A DESTRA È PRESENTE UN FRECCIA CHE INDICA LO SCORRERE DEL TEMPO.

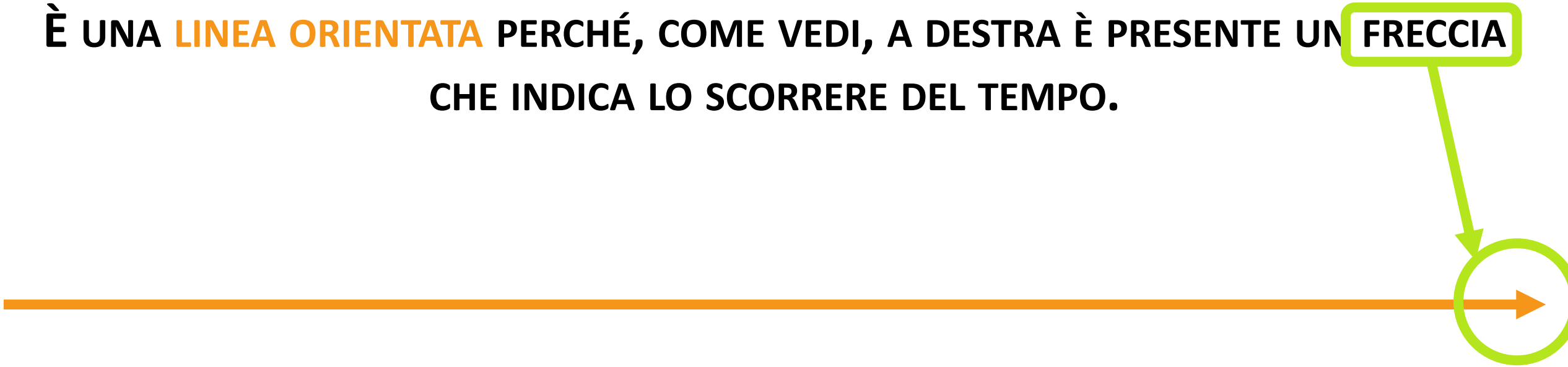

SM:D
SCUOLA MEDIA DIGITALE

LA CRONOLOGIA E LA LINEA DEL TEMPO

POSIZIONIAMO, AD ESEMPIO, SULLA LINEA DEL TEMPO L'ANNO IN CUI VIVIAMO…

SM:D
SCUOLA MEDIA DIGITALE

La cronologia e la linea del tempo

...il 2018: che cosa significa questo numero? Significa che stiamo vivendo nell'anno "2018 dopo la nascita di Cristo".

SM:D
SCUOLA MEDIA DIGITALE

La cronologia e la linea del tempo

La nascita di Cristo è quindi l'avvenimento che prendiamo come punto di riferimento per contare gli anni della storia dell'umanità.

SM:D
SCUOLA MEDIA DIGITALE

La cronologia e la linea del tempo

Quindi, noi viviamo nel 2018 "dopo Cristo", che deve essere indicato sulla linea del tempo a destra con la sigla d.C.

SM:D
SCUOLA MEDIA DIGITALE

La cronologia e la linea del tempo

All’estremità sinistra della linea del tempo, prima dell’anno zero, scriveremo a.C., che significa " avanti Cristo", e cioè "prima di Cristo"

SM:D
SCUOLA MEDIA DIGITALE

La cronologia e la linea del tempo

Sulla linea del tempo, l'intervallo tra gli anni, i secoli oppure i millenni deve essere rappresentata con la stessa distanza:

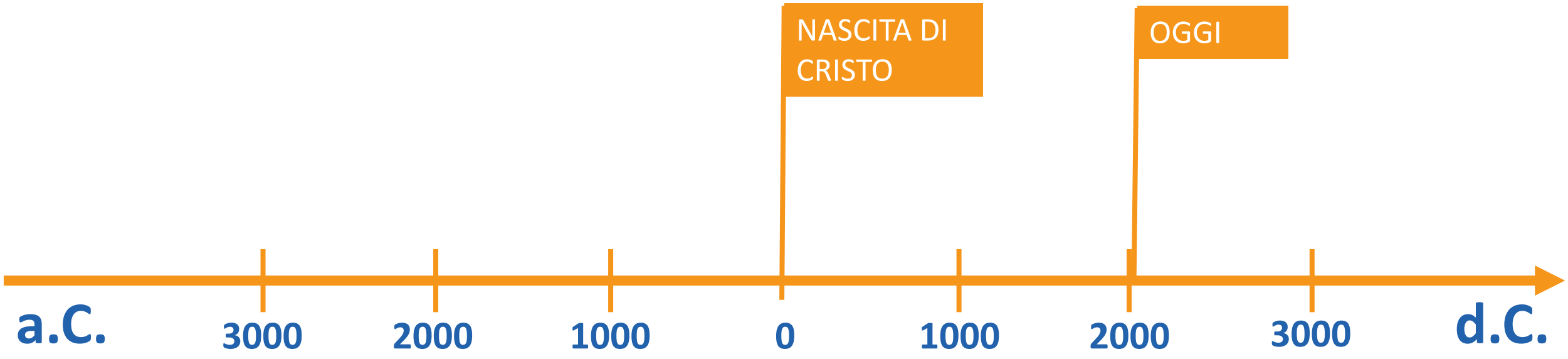

SM:D
SCUOLA MEDIA DIGITALE

La cronologia e la linea del tempo

Nel nostro caso, ciascun segmento corrisponde ad un tempo di mille anni (un millennio):

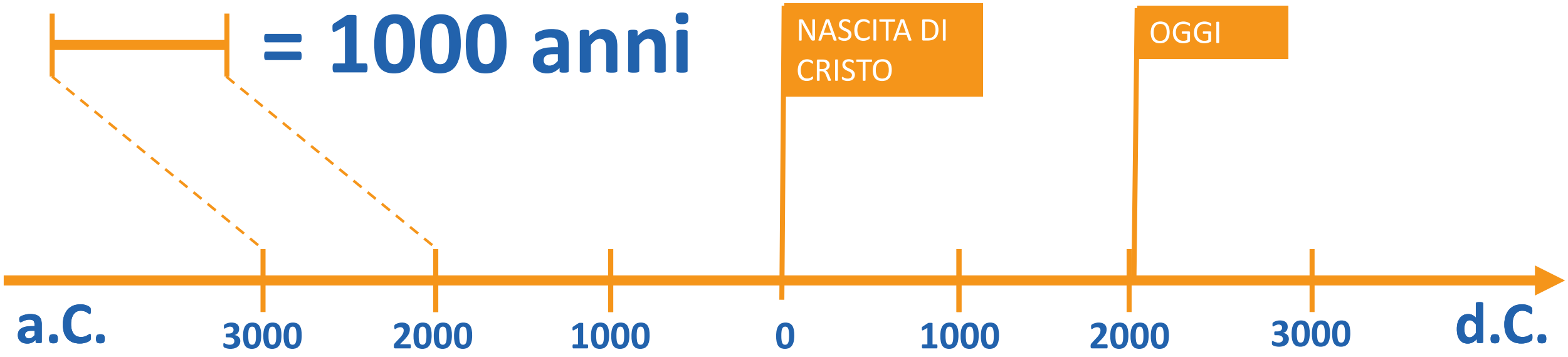

SM:D
SCUOLA MEDIA DIGITALE

La cronologia e la linea del tempo

In questo modo, abbiamo costruito la nostra prima linea del tempo, che va dal 3.000 a.C. al 3000 d.C.

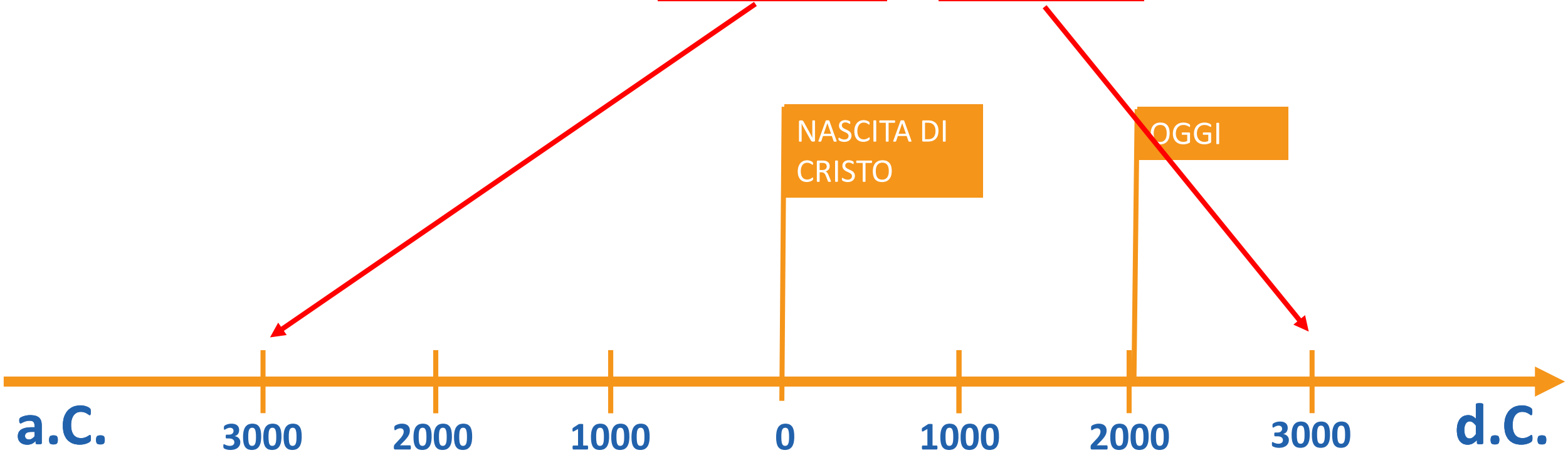

SM:D
SCUOLA MEDIA DIGITALE

La cronologia e la linea del tempo

Se, ad esempio, dovessimo rappresentare sulla linea del tempo la tua vita, dovresti usare un'unità di misura diversa, come questa:

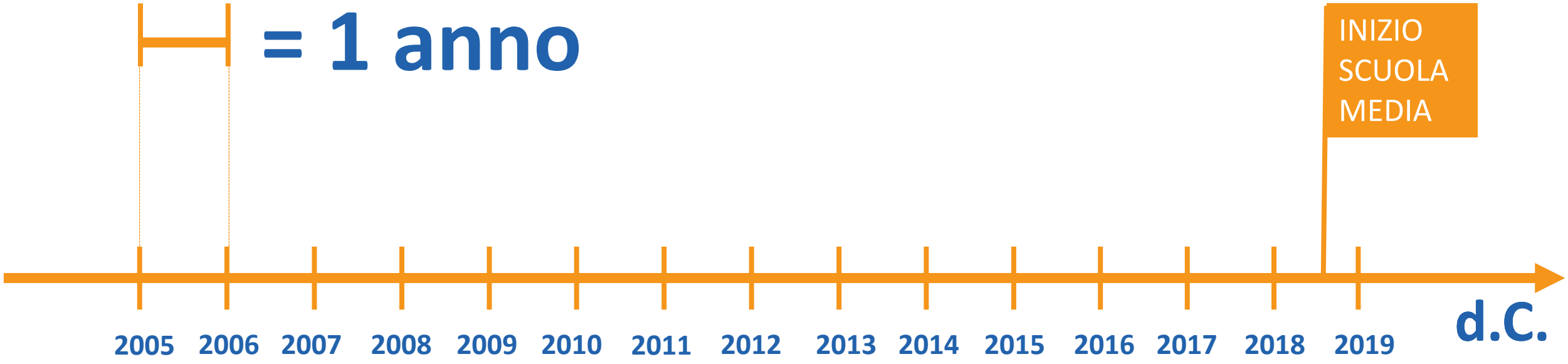

SM:D
SCUOLA MEDIA DIGITALE

La cronologia e la linea del tempo

Proposte operative:

1. Costruisci una linea del tempo dal 400 a.C. al 600 d.C. e inserisci le seguenti date: 350 a.C. – 120 d.C. – 50 d.C. – 150 a.C. – 530 a.C.;
2. Ricostruisci la linea del tempo della tua vita sul quaderno: aggiungi la tua data di nascita e tutte le altre date importanti che ricordi o che ti suggeriscono i tuoi familiari;
3. Costruisci una linea del tempo riguardante la vita di uno dei tuoi genitori o dei tuoi nonni, facendo attenzione ad utilizzare un'unità di misura adeguata.

La cronologia e la linea del tempo

Oggi abbiamo imparato…

- ✓ …che cos’è una linea del tempo e a che cosa serve;
- ✓ …a costruire una linea del tempo;
- ✓ …ad individuare l’unità di misura temporale corretta per la linea del tempo;
- ✓ …ad indicare in modo chiaro sulla linea del tempo il punto di riferimento dal quale si misurano gli anni.

SM:D
SCUOLA MEDIA DIGITALE

SM:D

SCUOLA MEDIA DIGITALE